平成20年度・学力考査問題　【社会】

（中学第３回）

注　意

1．試験時間は40分です。

2．答えはすべて解答用紙にはっきりと記入しなさい。

3．解答用紙のみ試験終了後あつめます。

4．問題は10ページで３題あります。開始の合図で必ず確認（かくにん）し，そろっていない場合にはすぐに手をあげなさい。

1　次の、先生と４人の生徒の会話を記した文章を読んで、後の問いに答えなさい。

先　生：ァ今年(2008年)は北海道でサミットが開催されます。知っていましたか？
きりこ：知らなかったです。日本で開催されるのですね。
ひかる：ィ2000年にも日本でサミットが開催されましたよね。
先　生：そうですね。日本での開催は今年のサミットで５度目になります。
まなぶ：先生、そもそもサミットでは何をするのですか？
先　生：主要国の首脳が、その時々の経済・社会の様々な問題について話し合います。
そのこ：今年は何を話し合うのですか？
ひかる：その時々の問題ということは、やはり、環境問題とかじゃないかな。ゥ地球温暖化対策も、ェ前に会議が行われて二酸化炭素の排出量を減らす約束をしていたみたいだけど、なかなか難しいみたいだし。
先　生：そうですね。今年のサミットでは地球温暖化をはじめとしたォ環境問題がテーマになると言われています。
きりこ：環境問題って私たちの生活にすごく関わってくるから、真剣に考えないといけないものね。ヵ日本国憲法第25条に書いてある健康で文化的な最低限度の生活を営む権利も、良い環境を整えないと実現しないだろうし。そういえば、憲法に環境のことって書いてあったかな？
まなぶ：うーん覚えてないな。
先　生：実は、「環境権」というものは憲法には書いてありません。
ひかる：じゃあ、保障されないのですか？
先　生：いえいえ、ㅋ公害からの保護や救済なども含め、良い環境で生活する権利を保障する必要はあるので、今の憲法に書いてある他の権利をうまく解釈して、保障しています。ただ、明らかに書いておいたほうがわかりやすいので、憲法改正をして、「環境権」というものを追加しようという考え方もあります。
まなぶ：改正しようとしているのは、環境権だけなの？
そのこ：テレビで見たことがあるけど、色々と改正する案がありますよね？
先　生：そうですね。ㄱ憲法第９条の改正や新しい権利の追加など、憲法改正をしようという考え方がありますね。さらに、2007年には憲法改正に関わる法律も成立し、憲法改正が具体的な動きになってきました。実際にヶ憲法改正手続に入ったら、どんな内容で改正されるのか、改正によってどういう影響があるのか、その改正が本当に必要なのか、私たち個人がよく考えなければならないですね。
ひかる：その前に政治や経済のいろいろな問題に興味を持たなくちゃいけないね。環境問題もそうですけど、他人事だと思っていてはいけないですよね。
先　生：そうですね。

問1　下線部アについて、以下の問いに答えなさい。

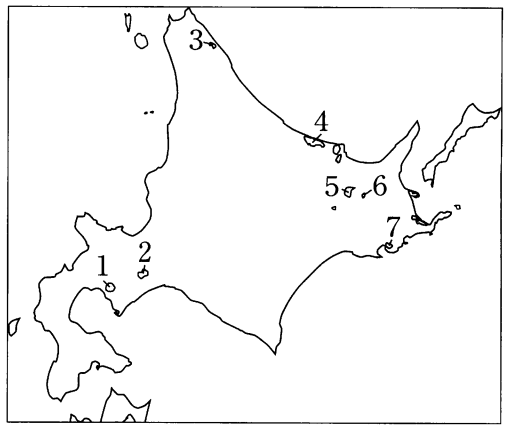

(1)　2008年のサミット開催地であり、サミットの通称(つうしょう)にも使われている湖の名称を答えなさい。

(2)　(1)で答えた湖の所在地を右の地図中の1～7から選び、番号で答えなさい。

(3)　(1)で答えた湖は、火山の噴火(ふんか)・爆発(ばくはつ)によってできた大きなくぼ地に水が溜(た)まってできたものですが、このようなくぼ地を何というか答えなさい。

(4)　(3)で答えたくぼ地を持つ山を、次の中から1つ選び、番号で答えなさい。

1．富士山　　2．阿蘇山　　3．大山　　4．昭和新山　　5．岩木山

(5)　北海道（札幌）の気候を表したグラフとして正しいものを次の中から1つ選び、番号で答えなさい。

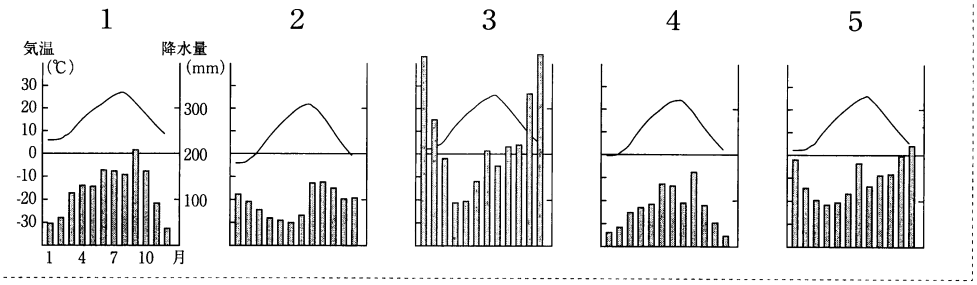

問2　下線部イについて、2000年にサミットが開催された地域に関係の深いものを、次の中から1つ選び、番号で答えなさい。

1．首里城　2．石見銀山　3．原爆ドーム　4．厳島神社　5．白神山地

問3　下線部ウについて、以下の問いに答えなさい。

(1)　二酸化炭素など、赤外線を吸収して地表の温度を保ち、地球に熱をこもらせてしまう気体のことをまとめて何というか、「～ガス」という形で答えなさい。

(2)　地球温暖化への対策とならないものを次の中から1つ選び、番号で答えなさい。

1．化石燃料の使用を減らす。　　2．炭素税などの環境税を導入(どうにゅう)する。
3．冷房の設定温度を1℃下げる。　4．電気自動車や燃料電池車を普及させる。

問4　下線部エについて、二酸化炭素排出量削減を話し合った会議の名称として正しいものを、次の中から1つ選び、番号で答えなさい。

1．高知会議　2．京都会議　3．大阪会議　4．広島会議　5．福岡会議

問5　下線部オについて、環境問題とその原因の組み合わせとして正しくないものを、次の中から1つ選び、番号で答えなさい。

1．酸性雨	—	硫黄酸化物や窒素酸化物
2．熱帯雨林破壊	—	プランテーション開発や過剰な伐採
3．オゾンホール	—	紫外線やダイオキシン
4．砂漠化	—	過剰な伐採や焼畑農業

問6　下線部カについて、以下の問いに答えなさい。

(1)　この下線部カの権利を何というか、「～権」という形で答えなさい。

(2)　憲法第25条とともに社会権に分類される権利で、憲法第26条によって、すべての国民にその能力に応じてひとしく保障されている権利は何か答えなさい。

問7　下線部キについて、以下の問いに答えなさい。

(1)　公害として定義されるもののうち、工場から排出された煙や、自動車の排気ガスなどによって空気が汚れることを何というか答えなさい。

(2)　四大公害の起こった場所と原因の組み合わせとして正しいものを、次の中から1つ選び、番号で答えなさい。

1．四日市ぜんそく	—	愛知県	—	亜硫酸ガス
2．新潟水俣病	—	水俣湾周辺	—	有機水銀
3．熊本水俣病	—	阿賀野川流域	—	有機水銀
4．イタイイタイ病	—	富山県	—	カドミウム

問8　下線部クについて、以下の問いに答えなさい。

(1)　日本国憲法の三大原則（基本原理）のうち、憲法第9条によって具体化されているものは何か答えなさい。

(2)　憲法第9条に書かれていないことを次の中から1つ選び、番号で答えなさい。

1．武力の行使をしない　　2．戦力を持たない
3．核兵器を持たない　　4．交戦権を認めない

問9　下線部ケについて、憲法改正手続に関する次の条文の［　あ　］～［　え　］にあてはまる語句を、後の語群から選んで、番号で答えなさい。

日本国憲法第96条

この憲法の改正は、各議院の［　あ　］の［　い　］の賛成で、国会が、これを発議し、国民に提案してその承認を経(へ)なければならない。この承認には特別の［　う　］又は国会の定める選挙の際行はれる投票において、その［　え　］の賛成を必要とする。

憲法改正について前項の承認(しょうにん)を経たときは、天皇は、国民の名で、この憲法と一体を成(な)すものとして、直(ただ)ちにこれを公布する。

≪語群≫

1．定足数　2．出席議員　3．総議員　4．欠席議員　5．族議員
6．4分の1以上　7．3分の1以上　8．過半数　9．3分の2以上
10．全員　11．国民審査　12．国民投票　13．国勢調査

2 日本とアメリカの歴史について、次の文章を読んで、後の問いに答えなさい。

1607年、イギリスが北アメリカ東部にヴァージニア植民地を建設し、その後13の植民地が形成されました。この13植民地がァイギリスとの独立戦争を経てアメリカ合衆国として独立しました。現在アメリカは世界最大の工業国であり、わが国とも関係は良好です。ただし、アメリカと日本が歴史的に常に良好な関係を築いていたわけではありませんでした。

1853年、アメリカの使節ペリーは神奈川県の［ ① ］を訪れ、日本に開国を求めました。そして1854年、日米和親条約が結ばれ、日本は2港の開港を認めました。さらにアメリカは日本に通商を求め、日本国内には反対の声もありましたが、結局1858年、ィ日米修好通商条約が結ばれました。

19世紀後半にアメリカが太平洋に進出する一方、明治維新を経て日本も積極的に海外に進出し、朝鮮に勢力を伸ばし中国と対立しました。1894年、日清戦争が始まり、日本は勝利しゥ講和条約を結びました。その後、朝鮮をめぐりェ日露戦争がおこり、ロシアを破りました。

20世紀に入りバルカン半島をめぐる紛争から第1次世界大戦がおこると、ォ日米両国ともに連合国側で参戦しました。この中でヵ日本は中国へ進出したので、アメリカをはじめ欧米諸国は警戒しました。

1929年から始まる世界恐慌の影響で日本の経済もゆきづまり、大陸への支配を拡大することで活路を開こうと、1931年キ満州事変をおこしました。これに対して国際連盟は日本へ満州からの撤兵を勧告したため、日本は国際連盟を脱退しました。［ ② ］年、北京郊外での日中両軍の武力衝突から日中戦争がはじまりました。この戦争はアメリカをはじめ、イギリス・フランスなども中国を援助したため、長期戦となりました。日本が長期戦を乗り切るために、東南アジアへ侵攻をはじめると、アメリカは日本への石油や鉄の輸出を禁止し対立が深まりました。そして1941年、日本はハワイの［ ③ ］を奇襲攻撃して、ク太平洋戦争がはじまりました。開戦当初日本軍は優勢でしたが、1942年のミッドウェー海戦の敗北から戦況は不利になり、1945年、原爆投下・ソ連の参戦も加わり、日本は［ ④ ］宣言を受け入れ降伏しました。

戦後、日本はアメリカ軍中心の連合国軍に占領され、アメリカの主導で軍隊の解散・財閥の解体などの民主的な改革がおこなわれ、1946年には日本国憲法が公布されました。その後、1951年の［ ⑤ ］平和条約で日本は国際社会に復帰し、戦後の世界を歩みはじめました。戦後の冷戦期やその後の時代も、日本はヶアメリカとの関係を中心とした外交を行っていますが、最近ではコ東南アジア諸国連合（ASEAN）の首脳会議への参加などアジア諸国との協調にも重点が置かれています。

問1　文中の［　①　］～［　⑤　］にあてはまる語句や数字を答えなさい。

問2　下線部アについて、アメリカ独立戦争と同じ世紀におこった日本のできごとについて、誤(あやま)っているものを次の中から1つ選び、番号で答えなさい。

1．ロシア使節ラクスマンが根室に来航(らいこう)し通商を求めたが、幕府は拒否した。
2．徳川家光が武家諸法度で参勤交代を制度化した。
3．長雨とうんかの害により享保のききんがおこった。
4．新井白石は船数や貿易額を制限することによって、金銀の海外流出を防止し、財政再建をはかろうとした。

問3　下線部イについて、この条約に調印した当時の江戸幕府の大老を答えなさい。

問4　下線部ウについて、

(1)　この条約に関する正しい文を次の中から1つ選び、番号で答えなさい。

1．南樺太は日本の領土とする。
2．清は日本にホンコン（香港）をゆずる。
3．日本の全権は小村寿太郎であり、清の全権は李鴻章であった。
4．清は日本に賠償(ばいしょう)金として二億両を支払う。

(2)　この条約で日本がリヤオトン（遼東）半島を獲得すると、列強3国が三国干渉を行いました。三国干渉を行った3国を答えなさい。

問5　下線部エについて、

(1)　日露戦争に関する日本国内の動きとして、正しいものを次の中から1つ選び、番号で答えなさい。

1．下関条約に反対する民衆が日比谷公園で暴動をおこした。
2．キリスト教徒の幸徳秋水や社会主義者の内村鑑三らは戦争に賛成した。
3．与謝野晶子は「君死にたまふことなかれ」と題する詩を発表した。
4．この戦争の直後にイギリスとの交渉により、領事裁判権が撤廃(てっぱい)された。

(2)　日露戦争の影響として誤っているものを、次の中から1つ選び、番号で答えなさい。

1．日本の朝鮮への影響力が大きくなった。
2．日本は大陸進出の足場(あしば)を築いた。
3．日本では鉄鋼業や造船業を中心に重工業が発達した。
4．トルコやイラン・インドなどでは日本への警戒心が高まった。

問6　下線部オについて、日本が戦争に参戦した理由となる同盟関係を答えなさい。

問7　下線部カについて、この戦争中の1915年に日本が中国に対して提出した要求を答え、その結果、中国の人々が起こした運動について説明しなさい。

問8　下線部キについて、満州事変開始から日中戦争開始までの日本国内の動きについて、誤っているものを次の中からすべて選び、番号で答えなさい。

1．海軍の青年将校らが犬養首相を射殺した。
2．関東大震災がおこった。
3．陸軍の青年将校らが反乱をおこして、大臣などを殺傷（さっしょう）した。
4．普通選挙法が定められた。

問9　下線部クについて、開戦当時の日本の首相を答えなさい。

問10　下線部ケについて、2003年に始まったイラク戦争の時にも、日本はアメリカを支持しました。アメリカが開戦の理由とした、次の文の［　　］にあてはまる語句を、漢字4文字で答えなさい。

アメリカは、イラクに［　　］兵器があると考え、開戦に踏み切った。

問11　下線部コについて、

(1)　東南アジア諸国連合は1967年に結成されましたが、この年に世界でおこっていた戦争として、正しいものを次の中から1つ選び、番号で答えなさい。

1．湾岸戦争
2．朝鮮戦争
3．ベトナム戦争
4．第1次中東戦争（パレスチナ戦争）

(2)　1997年、日本の首脳は東南アジア諸国連合の首脳会議に参加しましたが、この時日本以外に参加したアジアの国を2つ答えなさい。東南アジア諸国連合に日本とこの2カ国を加えて、ASEAN＋3とも呼ばれます。

このページには，問題がありません。

3 次の図をみて、後の文章を読んで問いに答えなさい。

ア

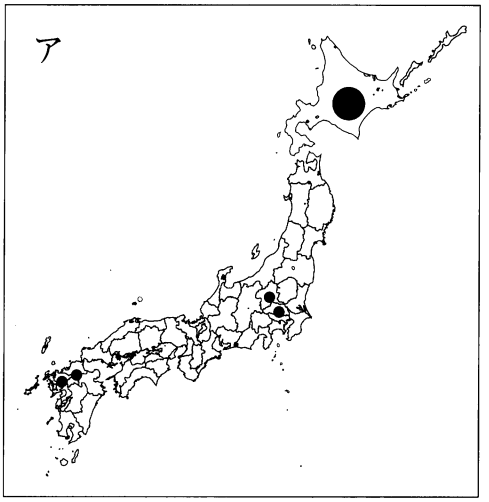

イ

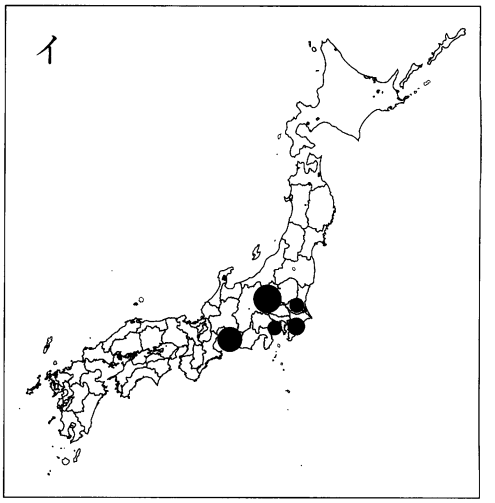

ウ

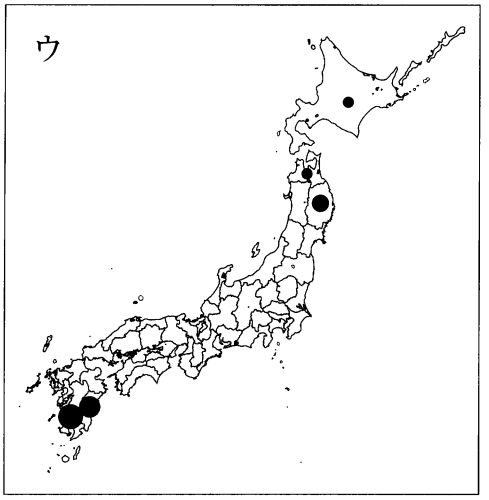

エ

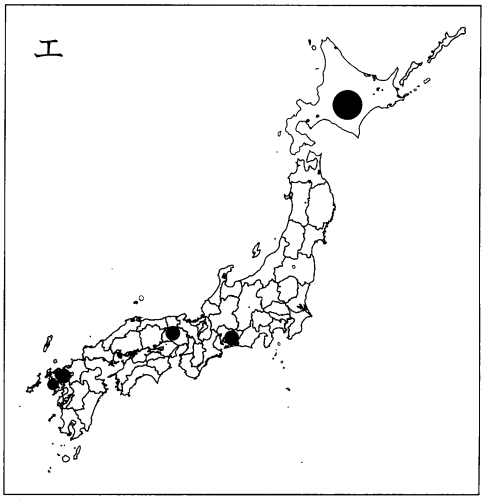

オ

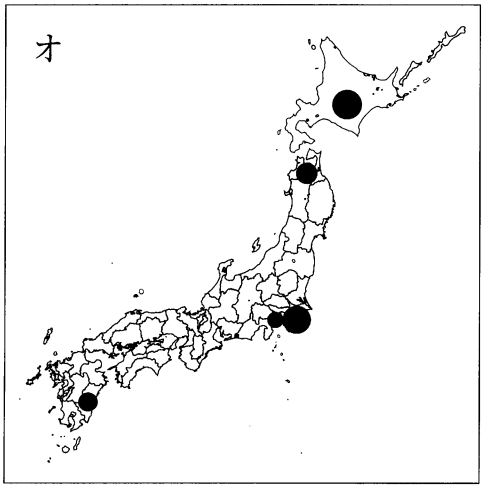

カ

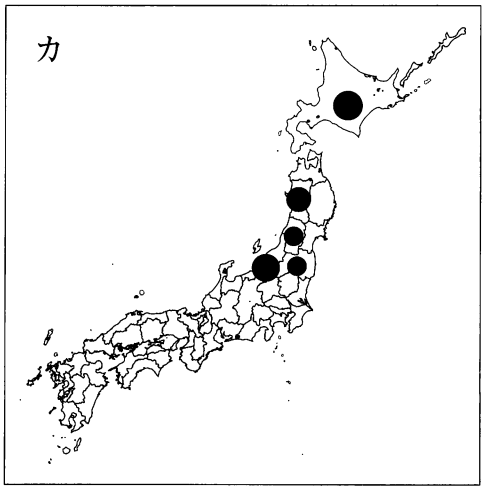

日本の農業は、戦後の農地改革によって、小作農から自作農への転換(てんかん)が進み、米の生産を中心として農業生産は増加していった。ところが高度経済成長の影響を受けて、農地面積や農家数は激減(げきげん)していった。米の需要も1960年代から減少し、余りはじめた。政府は米の生産調整として、a米の作付(さくづ)け面積の縮小や他作物への転換をすすめた。日本の農業は米中心から、畜産・野菜・果樹・園芸などへ変化していった。こうした時代の流れの中で、農産物の輸入自由化が次々にすすみ、外国からの安い農産物が多く流入してくるようになり、農業生産は減少し、それとともにb自給率も低下し続けている。近年、cトウモロコシやサトウキビなどの作物からアルコールを取り出し、ガソリンに混ぜて利用するなど、世界的に環境問題への取り組みもみられるようになったが、一部の農産物の価格が上がるなどの影響も出ている。

問1　ア～カの図は農産物の生産量上位5位までの都道府県を表したものです。それぞれの図が表している農産物を次の中から選び、番号で答えなさい。
(ただし、図中の円の大きさは生産量に比例している。)

1．米　　2．小　麦　　3．大　豆　　4．たまねぎ　　5．大　根
6．キャベツ　　7．じゃがいも　　8．ブロイラー　　9．乳　牛

問2　文中の下線部aについて、このような政策を何といいますか。

問3　文中の下線部bについて、自給率が50%に満たないものを、次の中からすべて選び、番号で答えなさい。

1．乳製品　2．小麦　3．豆類　4．野菜類　5．果実類　6．肉類

問4　文中の下線部cについて、このように作られて利用が進んでいるものは何ですか。

【社会】　解答用紙(中学第３回)

1

問１

(1)	湖	(2)		(3)	
(4)		(5)			

問２

問３

(1)	ガス	(2)	

問４

問５

問６

(1)	権	(2)	

問７

(1)		(2)	

問８

(1)		(2)	

問９

あ		い		う		え	

1

2

問１

①		②	年	③	
④	宣言	⑤	平和条約		

問２

問３

2

問4 (1) (2)

問5 (1) (2)　問6

問7

問8　問9　問10

問11 (1) (2)

3

問1 ア　イ　ウ　エ　オ　カ　**3**

問2 政策　問3

問4

受験番号		氏名	

得点	